الجمهورية الجزائرية الديمقراطية الشعبية
مديرية التربية لولاية أم البواقي
السنة الدراسية: 2024/2023
ثانوية: عبعوب بولعراس الحرملية **الشعبة:**
علوم تجريبية
اختبار بكالوريا تجريبي في مادة علوم الطبيعة والحياة
المدة: 4 ساعات

الموضوع الأول:

التمرين الأول (05 نقاط):

الفطريات كائنات حية حقيقية النواة تسبب بعضها تعفنات عند إصابتها لأنسجة مختلفة من جسم الإنسان , غير أن هذا الأخير تمكن من مكافتحها بإستعمال أدوية تعرقل نموها وتكاثرها وذلك بالتأثير على إحدى مراحل التعبير المورثي لديها.

ينتمي دواء (Kerydine) إلى عائلة مضادات الفطريات (Antifongiques) ويمتاز بمفعوله الفعال ضد نمو وتكاثر فطريات الأظافر من خلال تثبيطه لنشاط إنزيم تنشيط الأحماض الأمينية (Aminoacyl-ARNt synthétase), شريطة استعماله موضعيا (يطلى على الظفر المتعفن) وبشكل منتظم.

تظهر الوثيقة العناصر الضرورية لعملية تنشيط الأحماض الأمينية ومقر تأثير دواء(Kerydine) بالإضافة إلى مراحل التنشيط ممثل بشكل غير مرتب.

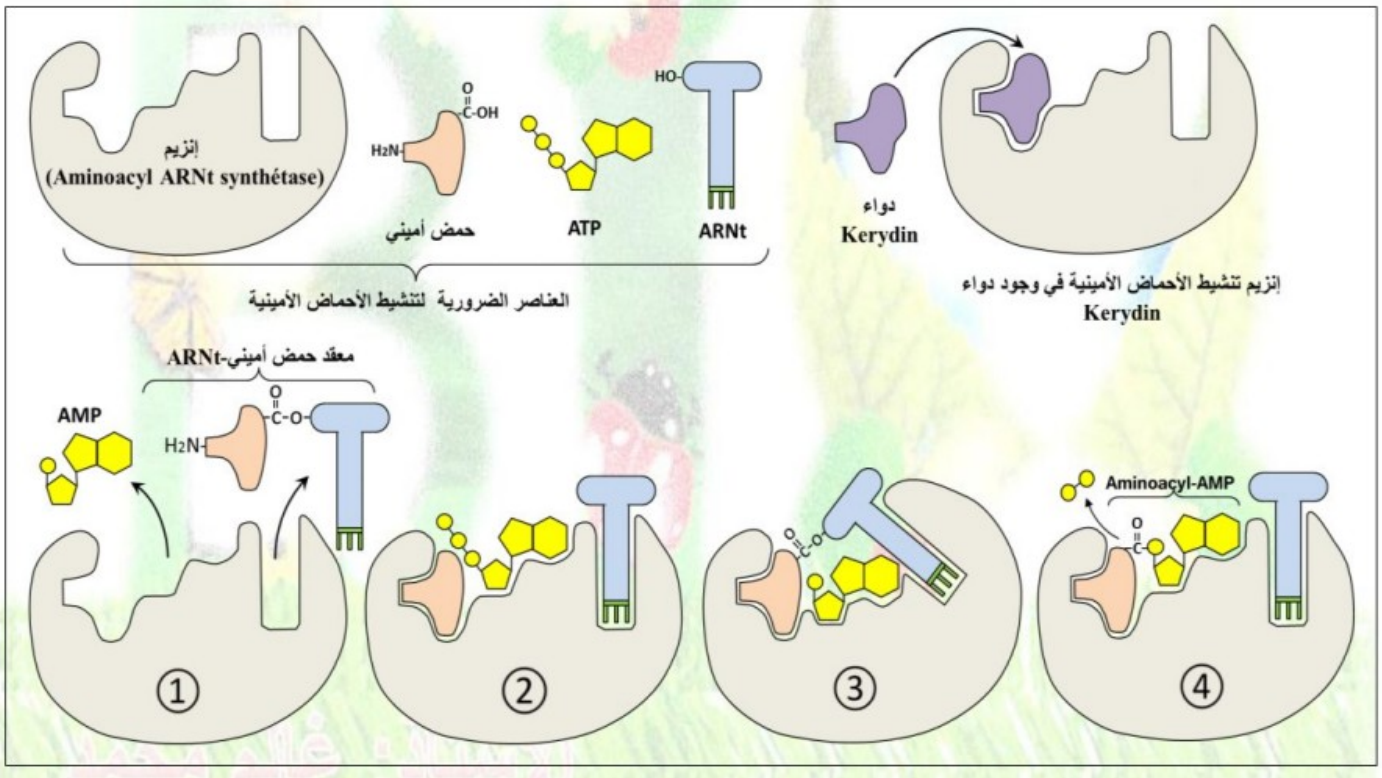

1-رتب ,ثم صف مراحل تنشيط الأحماض الأمينية التي تحدث أثناء التعبير المورثي.

2-اشرح في نص علمي كيف يوقف هذا الدواء تكاثر فطريات الأظافر مبرزا ضرورة الإستعمال الموضعي له.

التمرين الثاني : (07نقاط)

يؤمن الجهاز المناعي حماية للعضوية و خلاياها ضد كل ما قد يضر بوظائفها ، إلا أنه في بعض الحالات يصيبه خلل يؤدي إلى إختلالات خطيرة تعرف بأمراض المناعة الذاتية. و لتسليط الضوء عن بعض أسبابها و كذا طرق علاجها نقترح الدراسة التالية :

الجزء الأول :

يسبب مرض إلتهاب المفاصل الروماتويدي (Rheumatoid Arthritis) إلتهابات على مستوى مفاصل الجسم تتمثل في تورم الخلايا الزليلة للمفاصل ، تآكل العظم و الغضروف ما يؤدي إلى صعوبات في الحركة و ألام شديدة ، يمكن أن يكون وراثي أو مكتسب (التدخين ، بكتيريا) . لمعرفة سبب هذا المرض تقترح الدراسة الممثلة بالوثيقة1 :

الشكل أ : نسبة تكاثر مختلف اللمفاويات عند شخصين , شخص مصاب بإلتهاب المفاصل والأخر سليم

الشكل ب : بنية بروتين الكولاجين 2 المشكل للعظم والغضروف على مستوى مفصل عند شخص سليم والأخر مصاب بإلتهاب المفاصل الروماتويدي

ملاحظة :الحمض الأميني CITRULLINE(CIT) ينتج إنطلاقا من تحويل حمض ARGININE

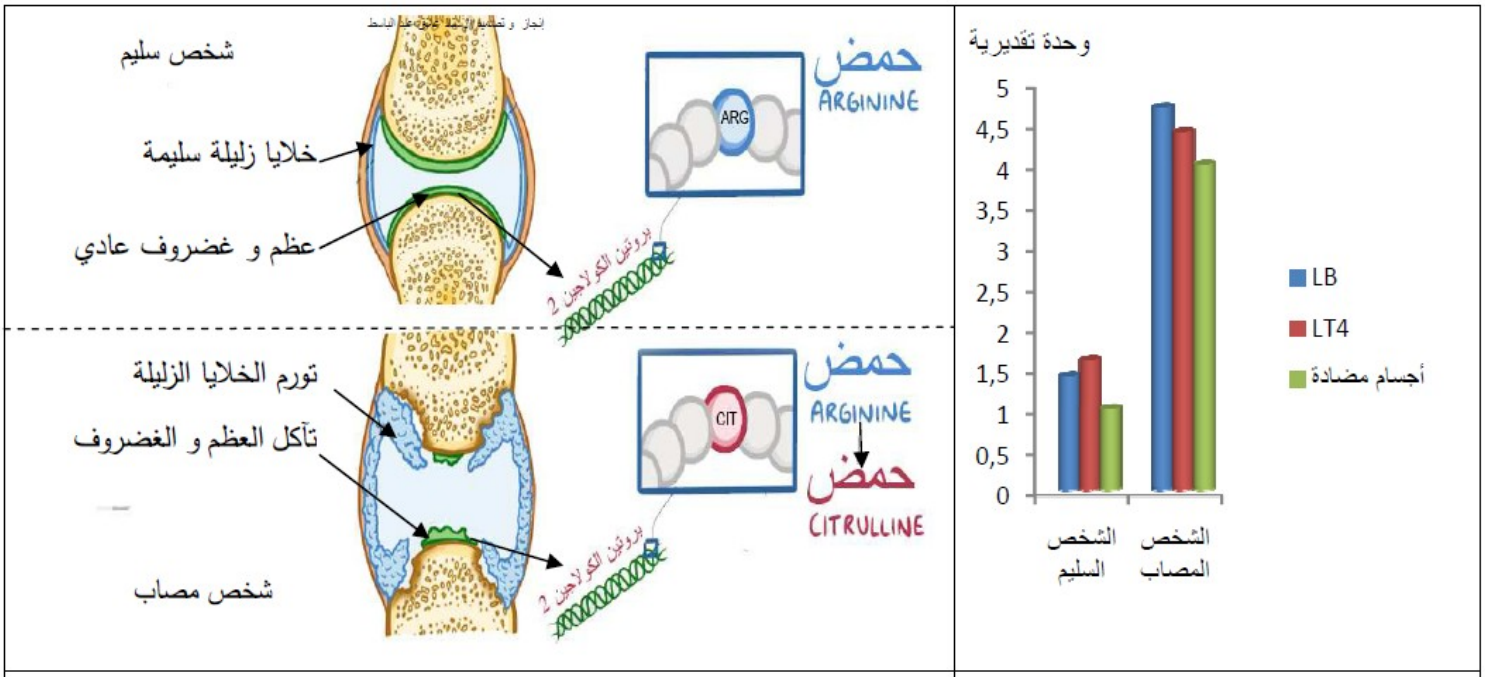

الشكل ب	الشكل أ

الوثيقة 1

ARGININE

1- وضح سبب مرض إلتهاب المفاصل الروماتويدي إنطلاقا من إستغلالك للوثيقة1.

الجزء الثاني :

لغرض معرفة علاقة الجهاز المناعي بأعراض مرض إلتهاب المفاصل الروماتويدي وكذا التعرف على طرق علاجه نقترح عليك الوثائق التالية :
تمثل الوثيقة 2 علاقة الجهاز المناعي بأعراض المرض
ملاحظة : السيتوكينات (TNF, IL2, IL1) بروتينات تعمل على توجيه الجهاز المناعي وزيادة الاعراض الإلتهابية.

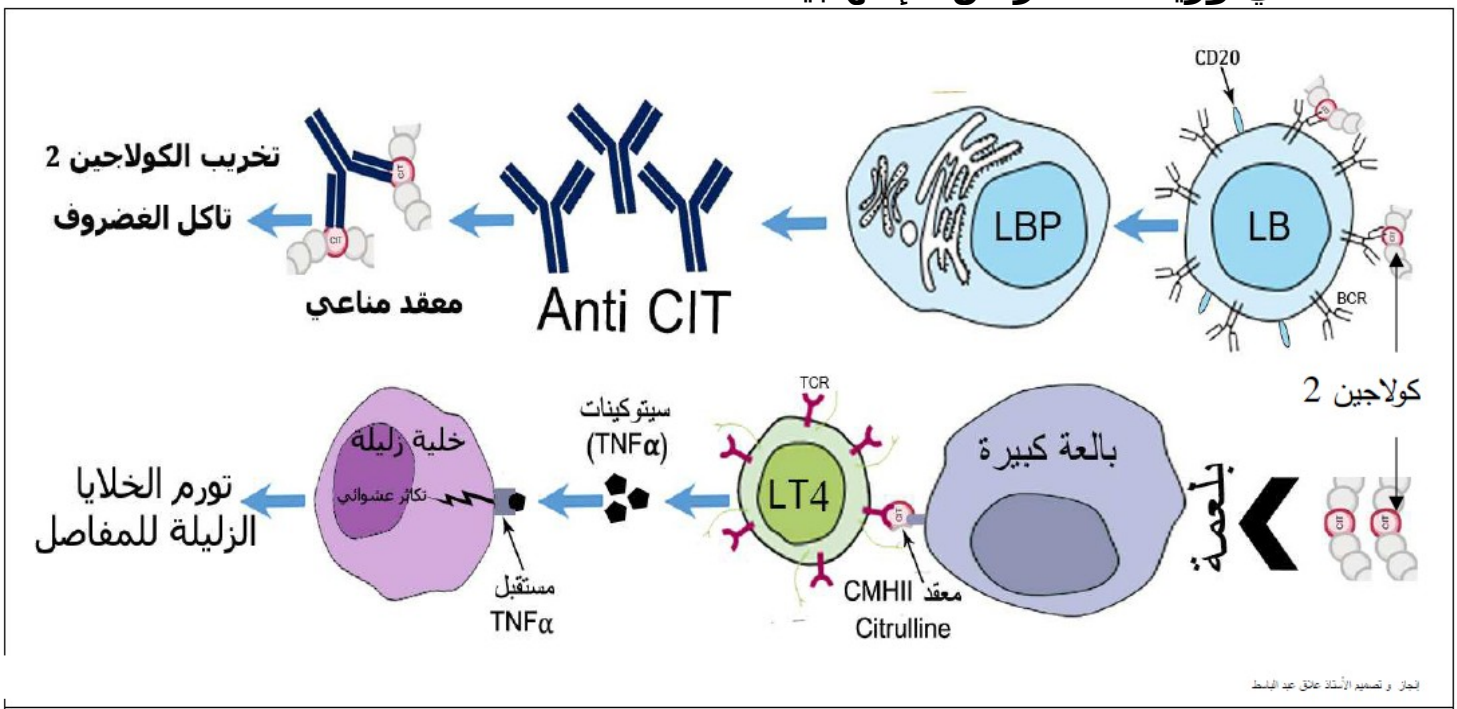

الوثيقة 2

بينما تمثل الوثيقة 3 آلية عمل كل من دوائيRituximab و Golimumab في علاج المرض .

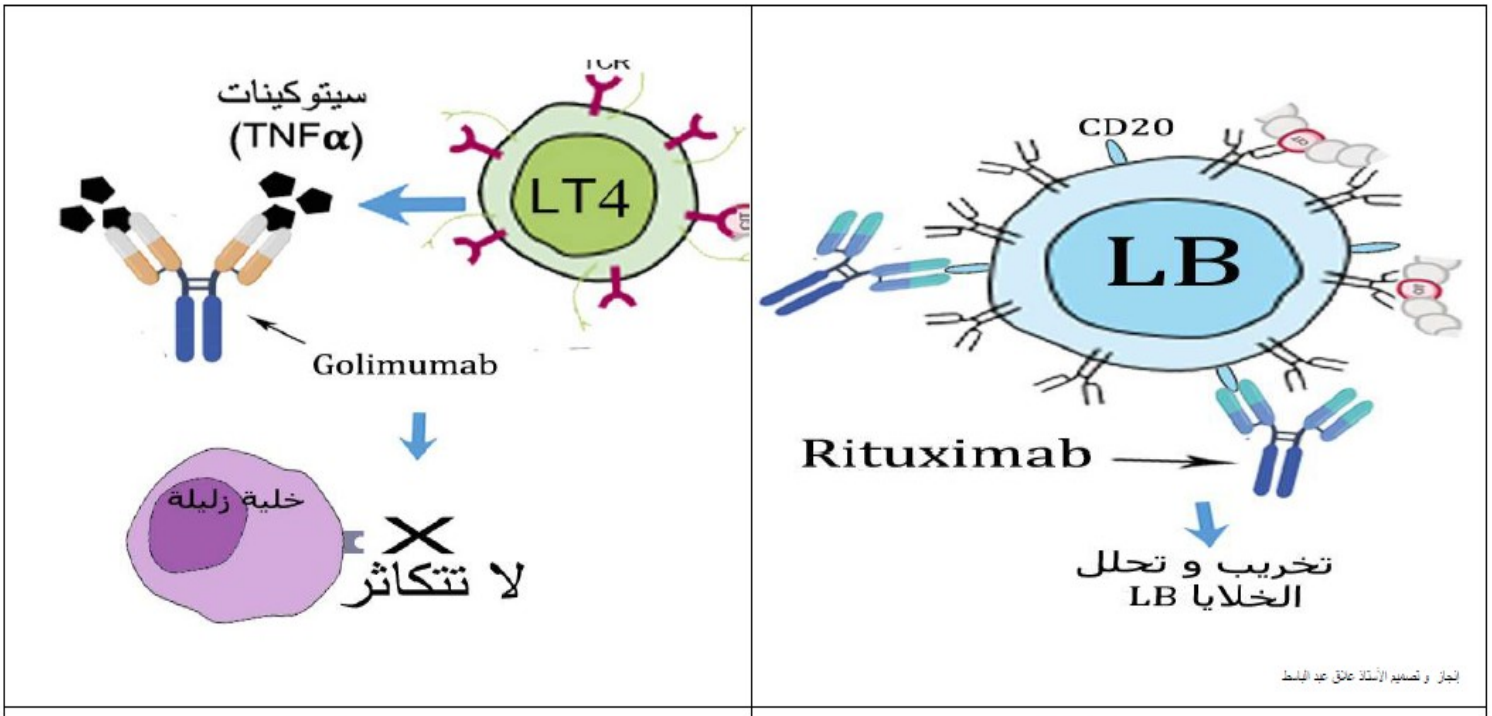

الشكل 1	الشكل 2

الوثيقة 3

1-أبرز علاقة الجهاز المناعي بأعراض مرض إلتهاب المفاصل الروماتويدي بإستغلالك للوثيقة 2.
2-وضح ألية عمل الدوائين مبرزا الأعراض الجانبية المحتملة بعد إستعمالهما بإستغلالك لشكلي الوثيقة 3.

التمرين الثالث : (08 نقاط)

للنباتات الخضراء القدرة على تحويل الطاقة الضوئية إلى طاقة كيميائية كامنة في المركبات العضوية انطلاقا من مواد معدنية وهذا وفق آليات تتطلب توفر الضوء و CO_2 والماء , إلا أن هذه العوامل قد تؤثر سلبا على عملية التركيب الضوئي في ظروف معينة مسببة ما يعرف بالإجهاد النباتي (Plant abiotic stress) . قصد فهم جانب من الآليات المسؤولة عن ذلك نقوم الدراسة التالية :

الجزء الأول:

تم تعريض معلق لطحلب أخضر الكلوريلا لشدات إضاءة متزايدة وقياس شدة التركيب الضوئي لديها, النتائج مبينة بالشكل (أ) للوثيقة 1, بينما الشكل (ب) من نفس الوثيقة فيمثل مخطط يوضح دورة النشاط العادية للنظام الضوئي الثاني PSII ضمن غشاء التيلاكويد حيث : D1 من بين البروتينات المكونة ل PSII والذي يلعب دور في نقل الإلكترونات المحررة من أصبغة مركز التفاعل (Chl a) وصولا إلى الناقل الأول ضمن سليلة نواقل الإلكترونات على

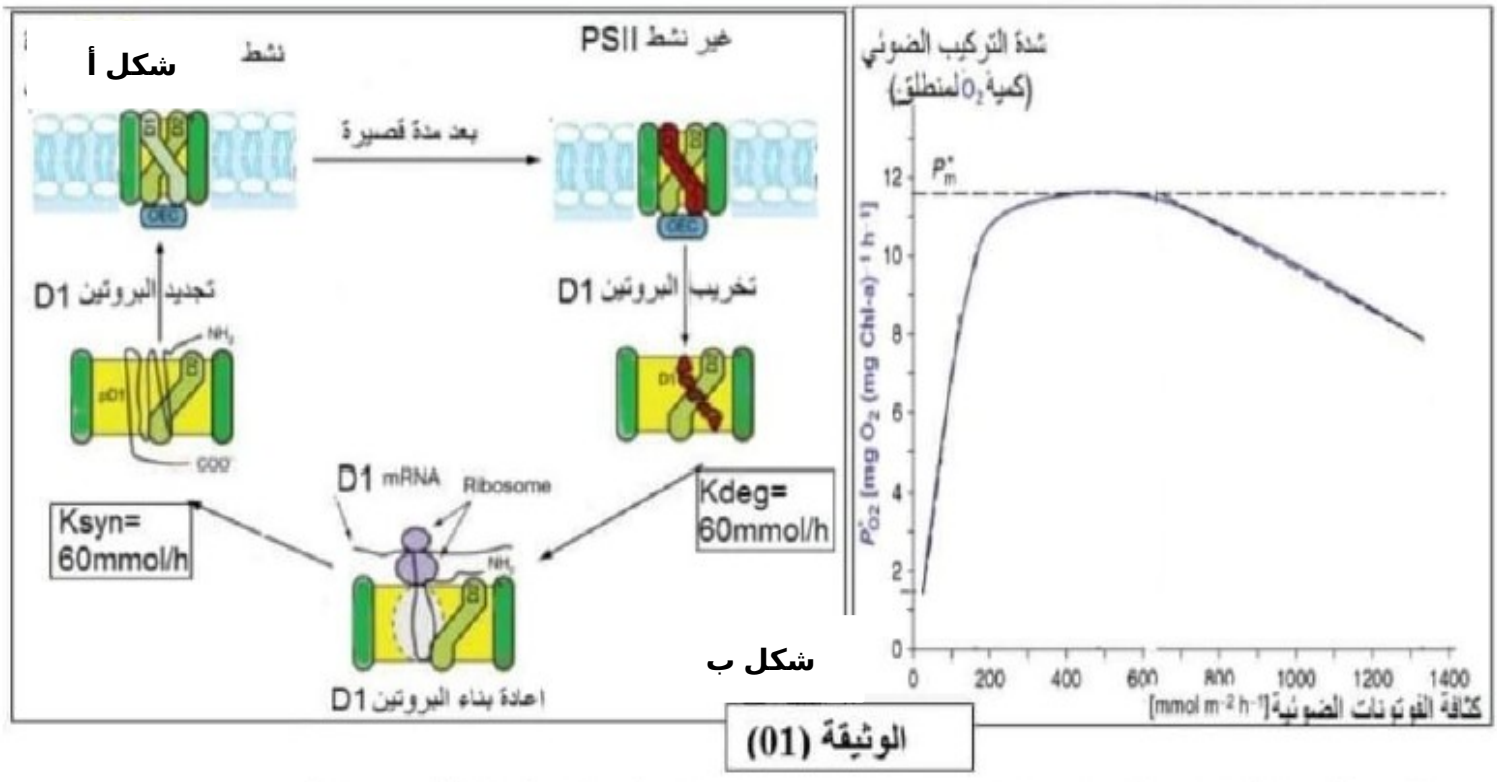

الوثيقة (01)

مستوى غشاء التيلاكويد :
Ksyn : يمثل معامل تجديد البروتين وهو يعبر عن عدد جزيئات البروتين المركبة في وحدة الزمن.

K_{deg} : يمثل معامل تخريب البروتين وهو يعبر عن عدد جزيئات البروتين المخربة في وحدة الزمن.
1-بإستغلالك لمعطيات الوثيقة (1) اقترح فرضية تفسر بها تأثير الإضاءة المرتفعة على شدة التركيب الضوئي.

<u>الجزء الثاني:</u>
قصد تفسير تأثير الإضاءة المرتفعة على شدة التركيب الضوئي والتحقق من صحة الفرضية المقترحة سابقا تم انجاز جملة من التجارب :
<u>التجربة1</u> : تم حصن معلق للصانعات الخضراء معزولة من الطحلب الأخضر الكلوريلا في وسط يحتوي على ميثيونين مشع (Met به S35 نظير مشع لعنصر الكبريت) ووتعريضها لشدات اضاءة متزايدة (مدة ساعة في كل إضاءة) وقياس شدة الإشعاع في البروتين D1 . النتائج المحصل عليها مبينة في الشكل أ من الوثيقة (02).
<u>التجربة 2</u> : بإستعمال معلق الصانعات الخضراء السابق تم قياس نسبة تشكل مركبات ROS (Reactive Oxygen Spaces) والنشاط النسبي لمـ-ـدد النظام الضوئي الثاني PSII وهذا عند تعريضها لشدة اضاءة مرتفعة النتائج المحصل عليها موضحة بالشكل ب من الوثيقة (02).
مركبات ROS تعتبر عوامل أكسدة قوية ناتجة عن تفاعل جزيء الأكسجين مشكلا الجذور الحرة للأكسجين كما هو مبين بالمعادلات التالية :

$$O_2 + e^- \longrightarrow {}^{\bullet}O_2^-$$
الاوكسجين الثنائي — جذر سوبر اوكسيد

$$2\ {}^{\bullet}O_2^- + 2H^+ \longrightarrow O_2 + H_2O_2$$

$$H_2O_2 + e^- \longrightarrow HO^{\bullet} + HO^-$$
بيروكسيد الهيدروجين — جذر الهيدروكسيل

الشكل ج للوثيقة (02) وهو رسم تفسيري يوضح آلية تأثير مركبات ROS على عملية تركيب البروتين.

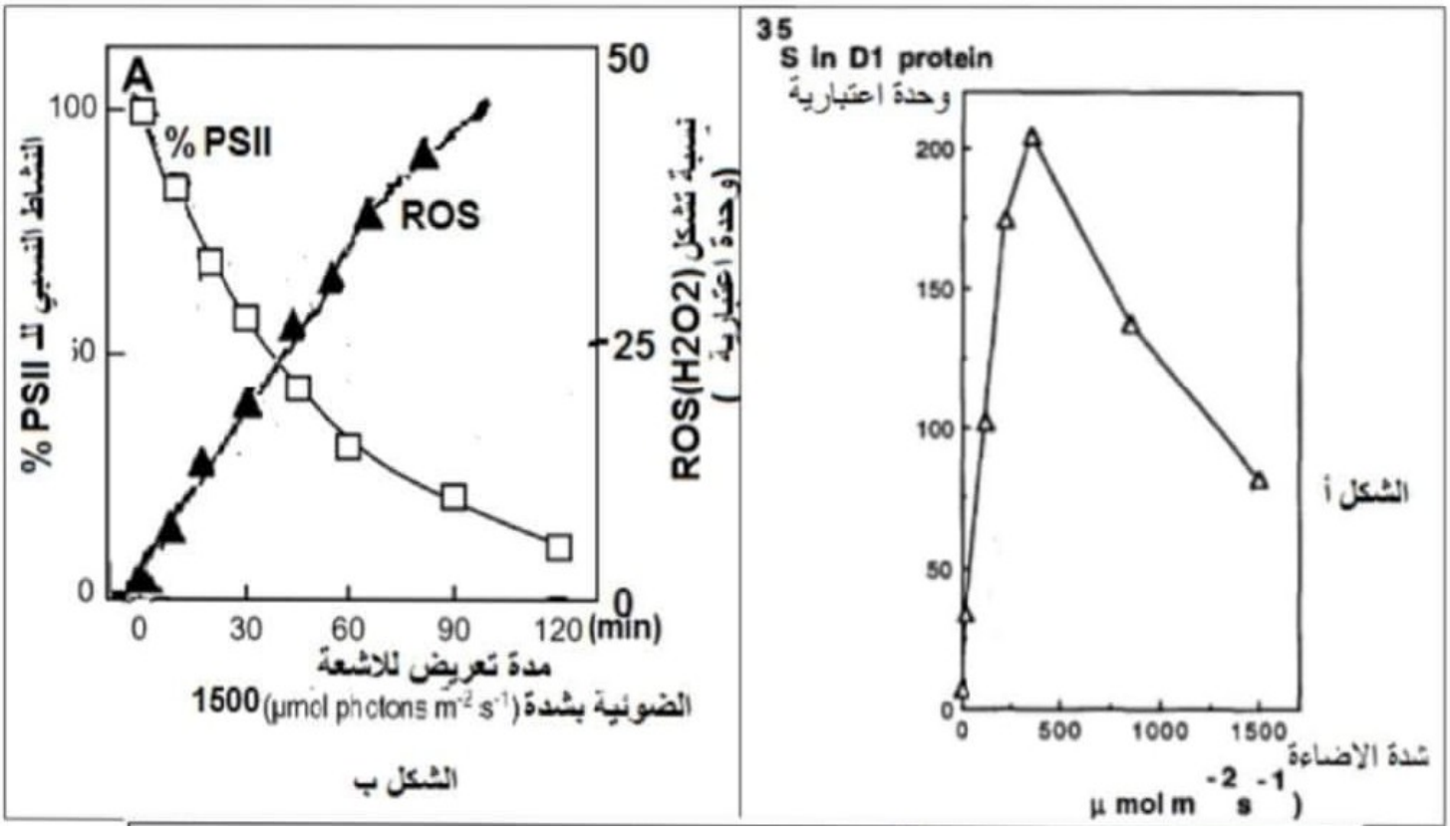

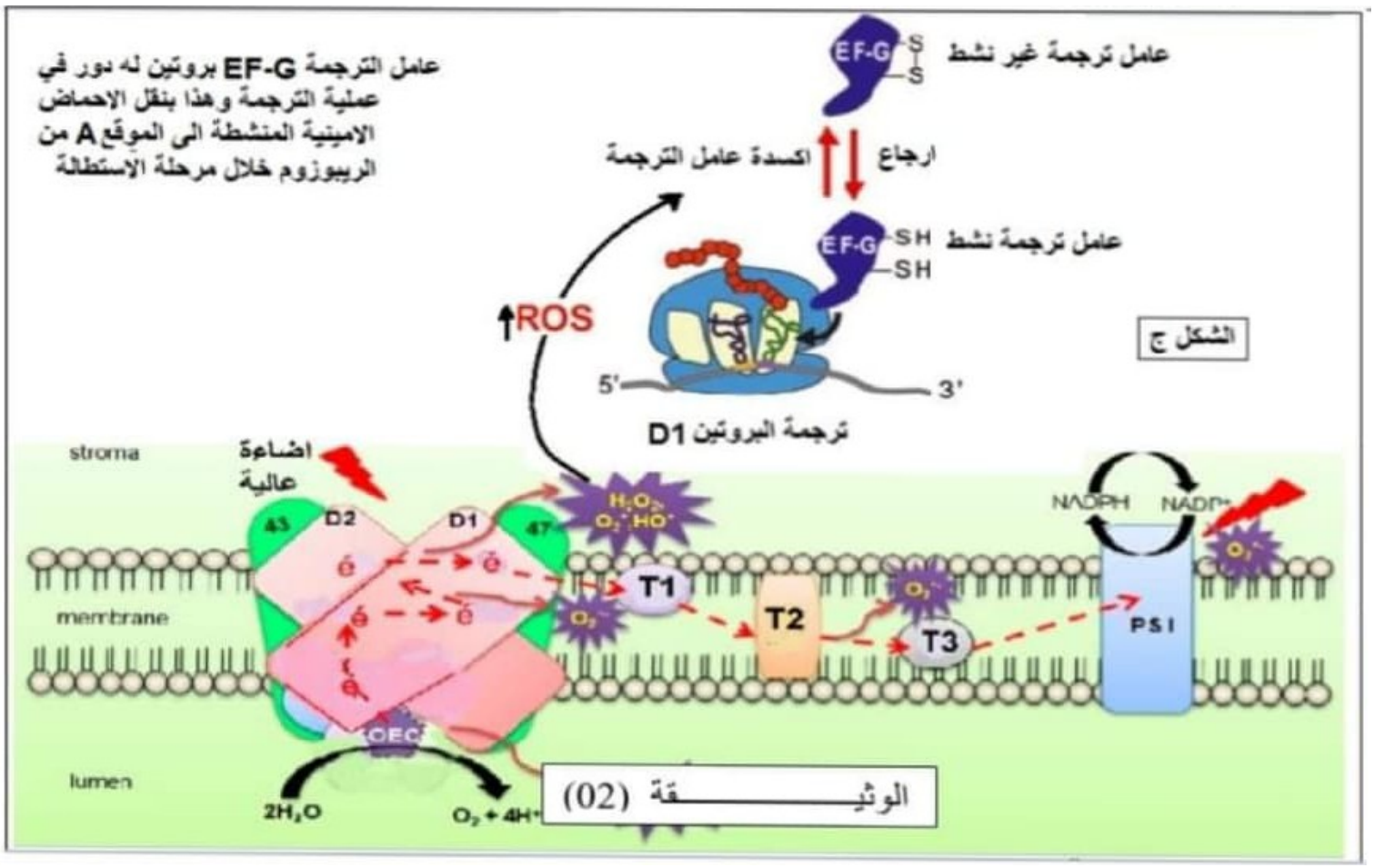

1-بإستغلالك لمعطيات الوثيقة ناقش صحة الفرضية المقترحة سابقا.

2-تقنية العلاج الضوئي الديناميكي Photodynamic Therapy مصممة للقضاء على الخلايا السرطانية تستعمل لتثبيط نمو الخلايا السرطانية من خلال حقنها بجزيئات (نظام ضوئي غشائي) مستخلص من نوع البكتيريا الزرقاء ثم تسلط عليها حزمة قوية من أشعة الليزر , بناء على ما تقدم في هذه الدراسة اشرح مبدأ هذه التقنية.

<u>الجزء الثالث :</u>

- انطلاقا من معطيات المقدمة في هذه الدراسة انجز مخطط تحصيلي لآلية التثبيط الضوئي لعملية التركيب الضوئي.

تمنياتي لكم

بالتوفيق

العلامة		عنـــــــــــاصر الإجـــــــابة(الموضوع الأول)
مجموع	مجزأة	
		التمرين الأول(05نقاط) **1-ترتيب الأشكال :** **الشكل (2) –الشكل (4)-الشكل (3)-الشكل (1)** **-وصف مراحل تنشيط الأحماض الأمينية :** **1. يتثبت كل من الحمض الأميني والـ ATP على إنزيم التنشيط في الموقع الخاص بكل منهما.** **2. يتشكل معقد وسيط حمض أمينيAMP- بعد إماهة الـ ATP.** **3. يتثبت الـARNt الخاص بالحمض الأميني في الموقع الخاص به على مستوى إنزيم التنشيط.** **4. ينفصل الـAMP عن الحمض الأميني ويرتبط هذا الأخير بالـARNt الخاص به مشكلاً المعقد حمض أمينيARNt-.** **5. يتحرر المعقد حمض أميني- ARNt من إنزيم التنشيط.** **عملية تنشيط الأحماض الأمينية عملية ضرورية تسمح بربط الحمض الأميني بـالـ ARNt الخاص به وذلك من أجل نقله إلى الريبوزوم (مقر الترجمة).** **2-النص العلمي :** **-يسبب تكاثر الفطريات تعفنات في الأنسجة المصابة مما يستدعي استعمال أدوية للقضاء عليها مثل دواء Kerydin الذي يقضي على فطريات الأظافر , فكيف يعمل هذا الدواء على إبادة فطريات الأظافر ؟ولماذا يجب استعماله موضعيا؟** **يتطلب تكاثر الفطريات تركيبها لبروتينات خاصة ويتم ذلك خلال مراحل متتالية هي النسخ , تنشيط الأحماض الأمينية والترجمة.** **-تعتبر آلية تنشيط الأحماض الأمينية مرحلة مهمة جدا في عملية تركيب البروتين فهي بمثابة حلقة وصل بين مرحلتي النسخ والترجمة يتم خلالها ربط الحمض الأميني بال ARNt الموافق له بتدخل إنزيم خاص (Aminoacyle-ARNt synthétase) ليقوم ال ARNt بنقل الحمض الاميني إلى موقع الترجمة في الريبوزوم.** **-يثبط دواء Kerydin نشاط إنزيم التنشيط بتثبته في الموقع الخاص بالحمض الأميني فيمنع ارتباط هذا الأخير بال الخاص به وبالتالي لا يتم تنشيط الأحماض الأمينية في وجود الدواء.** **-لايتم نقل الأحماض الأمينية إلى الريبوزومات فتتوقف عملية الترجمة ويتوقف تركيب البروتينات وبالتالي يتوقف تكاثر الفكريات المسببة للتعفنات.** **-يجب استعمال هذا الدواء موضعيا لضمان تأثيره على النسيج المتعفن من جهة ومن جهة أخرى لان استعماله عن طريق الفم أو الحقن يمكن أن يؤدي إلأى توقيف عمليات** **تركيب البروتين في خلايا مختلفة من العضوية ويتسبب في مشاكل صحية.** **يمكن الاستفادة من آلية تأثير دواء Kerydinفي إنتاج أدوية تؤثر على إحدى مراحل تركيب البروتين عند أنواع مختلفة من الفطريات والبكتيريا التي تسبب تعفنات في أنسجة أخرى.** **التمرين الثاني: (07ن)** **الجزء الأول :** - 1توضيح سبب مرض إلتهاب المفاصل الروماتويدي : **إستغلال الشكل -أ**:- نسبة تكاثر مختلف الخلايا اللمفاوية عند شخص سليم و مصاب

		عند الشخص السليم نسبة تكاثر كل من LB و LT4 منخفضة أقل من 1.5 و.ت و كذلك نسبة الأجسام المضادة أقل من 1 و.ت. عند الشخص المصاب نسبة تكاثر اللمفاويات LB و LT4 مرتفعة أكثر من 4.5 و.ت و كذلك الأجسام المضادة أكبر من 4 و.ت **الإستنتاج** : يعاني الأشخاص المصابين بمرض إلتهاب المفاصل من حدوث إستجابة مناعية **إستغلال الشكل ب** : بنية بروتين الكولاجين المشكل للعظم و الغضروف عند شخصين مصاب و سليم عند الشخص السليم تكون الخلايا الزليلة و كذلك العظم و الغضروف عادية بينما الشخص المصاب تكون الخلايا الزليلة متورمة ،العظم و الغضروف متأكلين بروتين الكولاجين 2 عند الشخص المصاب يستبدل حمض الARG بال CIT **الإستنتاج** : بروتين الكولاجين 2 يكون طافراعند الأشخاص المصابين بمرض إلتهاب المفاصل (إستبدال ARG بال CIT) **الربط : توضيح سبب المرض**: يعود سبب مرض إلتهاب المفاصل الروماتويدي إلى استبدال الحمض الأميني ARG بال CIT على مستوى السلسلة الببيتيدية لبروتين الكولاجين 2 ، ما يؤدي إلى اعتباره جسما غريبا و يتم توجيه الاستجابة المناعية ضده بتدخل الخلايا LT4 والخلايا LB بإنتاج أجسام مضادة و بالتالي تخريب الكولاجين 2 ما يؤدي إلى تاكل العظم ، الغضروف و تورم الخلايا الزليلة للمفصل. **الجزء الثاني** : 1-ابراز علاقة الجهاز المناعي بأعراض مرض التهاب المفاصل **استغلال الوثيقة 2 :**علاقة الجهاز المناعي باعراض المرض. من جهة يتم: -تتعرف الخلية LB على بروتين الكولاجين 2 بواسطة BCR لاعتباره جسم غريبا -تكاثر وتمايز الخلية LB الى LBp منتجة للاجسام المضادة ضد CIT الموجود في الكولاجين 2 -تشكل معقد مناعي (جسم مضاد-كولاجين2) - تخريب الكولاجين 2 و تآكل الغضروف من جهة أخرى : -- تقوم البالعة الكبيرة ببلعمة بروتين الكولاجين 2 بإعتباره جسما غريبا . -عرض المعقد (حمض CIT –CMHII) على غشاء البالعة -تعرف مزدوج للخلية LT4 على المعقد المعروض من طرف البالعة -تركيب وافراز السيتوكين TNFα من طرف LT4 - تثبت جزيئات TNFαعلى المستقبل الغشائي النوعي على مستوى الخلية الزليلة مايحفزها على التكاثر العشوائي وبالتالي تورمها **الإستنتاج** : تتتسبب خلايا الجهاز المناعي الLB و LT4 و البالعات الكبيرة في ظهور مرض التهاب المفاصل **الربط : إبراز علاقة الجهاز المناعي باعراض المرض**: تتمثل علاقة الجهاز المناعي باعراض مرض التهاب المفاصل في تخريب بروتين الكولاجين 2 بإنتاج اجسام مضادة ANTI CIT تتفاعل ذاتيا معه بتدخل الخلايا LB وبالتالي تاكل العظم الغضروف من جهة ، و من جهة أخرى إفرازTNFα الذي يحفز الخلايا الزليلة على التكاثر العشوائي بتدخل البالعات الكبيرة والخلايا

LT4

2-آلية عمل كل من دوائي Rituximabو Golimaumab في علاج المرض وإبراز اعراضهم الجانبية :

- **استغلال الوثيقة3 :**

الشكل أ : تثبت جزيئات دواء Rituximab و هي أجسام مضادة على الجزيئات الغشائية CD20 للخلايا LB المحسسة مشكلة معها معقدات مناعية مما يمنع تمايزها إلى خلايا LBP و عدم إنتاج أجسام مضادة و تحلل وتخريب الخلايا LB

الإستنتاج : يثبط دواء Rituximab الإستجابة المناعية الخلطية بإستهدافه للخلايا LB

الشكل ب : دواء Golimumab عبارة عن جسم مضاد يستهدف جزيئات TNF α المفرزة من طرف الخلايا LT4 المحسسة مشكلة معها معقدات مناعية مما يمنع تثبت TNFα على مستقبلاتها الغشائية والتالي عدم تكاثر الخلايا الزليلة عشوائيا

الإستنتاج : دواء Golimumab يمنع عمل السيتوكين TNFα المفرز من طرف الخلايا LT4

الربط : ألية عمل الدوائين

يعمل دواء Rituximab على تثبيط الإستجابة المناعية الخلطية و هذا بإرتباطه بمؤشر CD20 الخاص بالخلايا LB مشكلا معقدات مناعية ما يمنع تكاثرها و تمايزها إلى خلايا بلازمية و عدم إنتاج أجسام مضادة ذاتية التفاعل يؤدي إلى عدم تخريب و تآكل العظم و الغضروف , بينما يستهدف دواء Gilimumab السيتوكينات TNFα المفرز من طرف الخلايا LT4المحسسة المفرزة فتتشكل معقدات مناعية تمنع تتبث السيتوكين على مستقبله في الخلية الزليلة فلا يتم تحفيزها على التكاثر العشوائي و بالتالي عدم حدوث التورم

الأعراض الجانبية المحتملة :

بما أن الأدوية تعمل على تثبيط الإستجابة المناعية ، فإن إستعمالها يؤدي إلى ظهور أمراض إنتهازية

التمرين الثالث : (08ن)

الجزء الاول :

استغلال الوثيقة (01):

يمثل الشكل (أ) للوثيقة (01) منحنى بياني يعبر عن تغيرات شدة التركيب الضوئي (مقاسة بكمية **O2** المنطلق) بدلالة كثافة الفوتونات الضوئية عند طحلب اخضر الكلوريلا حيث :

من 0 الى **350mol µ** فوتون: تتزايد شدة التركيب الضوئي بزيادة شدة الاضاءة او كثافة الفوتونات الضوئية

من 350 الى 650 **mol µ** فوتون: تبلغ شدة التركيب الضوئي قيمة اعظمية تقدر ب

11.8 وتثبت فيها .
من 650 **mol µ** فوتون: تتناقص شدة التركيب الضوئي تدريجيا بتزايد كثافة الفوتونات الضوئية .
ومنه نستنتج لطحلب الكلوريلا والنبات الاخضر عموما شدة اضاءة مثلى يكون فيها التركيب الضوئي عنده اعظميا واذا زادت عن هذه القيمة تصبح ذات تأثير سلبي .
الشكل (ب) للوثيقة (01) عبارة عن مخطط يمثل دورة نشاط النظام الضوئي **PSII** في شدة اضاءة مثلى حيث نلاحظ ما يلي :
تعرض النظام الضوئي **PSII** للإضاءة يؤدي بعد مدة قصيرة الى تخريب احد بروتيناته وهو البروتين **D1** فهو حساس للضوء فيصبح النظام الضوئي **PSII** في حالة غير نشطة الا ان الصانعة الخضراء تقوم بتجديده مباشرة فيستعيد بذلك النظام الضوئي **PSII** نشاطه وهكذا, حيث تكون نسبة التجديد مساوية لنسبة التخريب في الاضاءة المثلى .
ومنه نستنتج ان استمرارية نشاط النظام الضوئي **PSII** تتطلب وجود توازن ديناميكي ما بين نسبة تخريب ونسبة تجديد البروتين **D1** .
مما سبق نجد ان البروتين **D1** للنظام الضوئي **PSII** حساس جدا للضوء فهو يتخرب بسرعة عند تعرضه للإضاءة لكن الصانعة الخضراء تقوم بتجديده بوتيرة مساوية لتخريبه مما يضمن استمرارية نشاط النظام الضوئي **PSII** وبالتالي عملية التركيب الضوئي, لكن الاضاءة القوية تؤثر سلبا على عملية التركيب الضوئي فتثبطها وعليه يمكن اقتراح الفرضية التالية :
ان الاضاءة المرتفعة تزيد من نسبة تخريب البروتين **D1** وتثبط تجديده مما يتسبب في توقف نشاط النظام الضوئي **PSII** وبالتالي توقف سيرورة تفاعلات المرحلة الكيموضوئية وبالتالي عملية التركيب الضوئي .

<u>الجزء الثاني :</u>
مناقشة صحة الفرضية المقترحة :
استغلال معطيات الوثيقة (02):
الشكل (أ) : يمثل منحنى بياني لتغيرات كمية الكبريت المشع (الاشعاع) في البروتين **D1** بدلالة شدة الاضاءة حيث :
من 0 الى 350 **mol µ** فوتون: نسجل تزايد سريع في نسبة الاشعاع في البروتين **D1** بتزايد الاضاءة ليبلغ قيمة قصوى (210 وحدة اعتبارية) في شدة اضاءة 350 **mol µ** فوتون.
من 350 **mol µ** فوتون فما فوق: نسجل تناقص في شدة الاشعاع في البروتين **D1** لتبلغ قيمة 80 وحدة اعتبارية في 1500 **mol µ** فوتون.
ومنه نستنتج ان الاضاءة المرتفعة اكثر من القيمة المثلى تزيد من نسبة تخريب البروتين **D1** .

		الشكل (ب) : يمثل منحنيات بيانية لتغيرات نسبة كل من مركبات **ROS** والنشاط النسبي النظام الضوئي **PSII** بدلالة الزمن وهذا بعد تعريض معلق الصانعات الخضراء لطحلب الكلوريلا لشدة اضاءة مرتفعة تقدر ب 1500 **mol µ** فوتون نلاحظ ما يلي : قبل تعريض المعلق للاضاءة المرتفعة تكون نسبة النشاط النسبي للنظام الضوئي **PSII** مرتفعة (100%) بينما نسبة تشكل المركبات **ROS** فتكون منعدمة . وكلما زادت مدة تعريض معلق الصانعات الخضراء للاضاءة المرتفعة نسجل زيادة في نسبة تشكل المركبات **ROS** يقابلها تناقص كبير في النشاط النسبي للنظام الضوئي **PSII** . ومنه نستنتج ان زيادة نسبة المركبات **ROS** في الاضاءات المرتفعة لها تاثير تثبيطي لنشاط النظام الضوئي **PSII** . الشكل (ج): يمثل رسم تخطيطي لالية تاثير المركبات **ROS** على نشاط النظام الضوئي **PSII** نلاحظ ما يلي: الاضاءة المرتفعة اكثر من القيمة المثلى تؤدي ال زيادة اكسدة الماء والانظمة الضوئية وهذا ما يسمح بزيادة معدل انتقال الالكترونات عبر سلاسل نواقل الالكترونات وصولا الى المستقبل النهائي وايضا زيادة انطلاق الاكسجين والذي يتفاعل مع الالكترونات المحررة مما يؤدي الى تشكيل المركبات التفاعلية للاوكسجين **ROS** والتي تعتبر عوامل اكسدة قوية فتزداد نسبتها كلما زادت شدة الاضاءة هذا من جهة .وفي نفس الوقت على مستوي الحشوة تحدث عملية ترجمة البروتين **D1** والتي يتطلب حدوثها تنشيط لبروتين خاص يدعى عامل ترجمة **EF-G** والمسؤول عن نقل الاحماض الامينية الى الموقع **A** من الريبوزوم خلال مرحلة الاستطالة . هذا الاخير يتم ارجاعه حيث يؤدي ذلك الى كسر جسر كبريتي فيصبح في حالة نشطة , لكن في وجود نسبة مرتفعة من مركبات **ROS** تحدث عملية عكسية حيث تتم اكسدة **EF-G** فيصبح في حالة غير نشطة مما يؤدي الى توقف تركيب البروتين **D1** . ومنه نستنتج ان الاضاءة المرتفعة تثبط عملية تجديد البروتين **D1** بمنع تركيبه. مما سبق نجد ان الاضاءة المرتفعة اكثر من القيمة المثلى للنبات الاخضر تثبط عملية التركيب الضوئي لديه من خلال تأثيرها على نشاط النظام الضوئي **PSII** ضمن اغشية التيلاكويد فهي من جهة تزيد من نسبة تخريب احد بروتيناته النشطة **D1** والذي له دور في نقل الالكترونات ومن جهة اخرى تثبط عملية تجديده بزيادة نسبة تشكل المركبات **ROS** والتي لها تأثير تثبيطي غلى عملية تركيب البروتين ومنه فالفرضية المقترحة صحيحة. 2. استعمال تقنية العلاج الضوئي الديناميكي**Photodynamic therapy** في علاج امراض السرطان يعتمد على حقن الخلايا السرطانية بجزيئات حساسة للضوء مثل جزيئات **PS** مستخلصة من نوع من البكتيريا الزرقاء ثم تعرض لحزمة من اشعة الليزر مما يؤدي الى امتصاصه لطاقة الاشعاعات المسلطة عليه فيتهيج ثم يتأكسد محررا بذلك الكترونات تتفاعل مع الاوكسجين المذاب في هيولى الخلايا السرطانية مما يؤدي الى تشكيل مركبات **ROS** والتي تؤثر سلبا على عملية تركيب البروتين في الخلايا السرطانية فتثبطها وبهذا تموت الخلايا السرطانية وهي من بين العلاجات الفعالة في محاربة امراض السرطان حاليا .	

الجزء الثالث: مخطط تحصيلي لألية التثبيط الضوئي لعملية التركيب الضوئي :

